Турнир Географов

Игра для учащихся 8 класса

ПРАВИЛА ИГРЫ

В игре участвуют обучающиеся 7-8-х классов.

Турнир состоит из 6 раундов.

В 1 раунде задания выполняются командами по очереди.

2,3,4,5 раунды задания выполняются командами одновременно.

6 раунд - решающий.

Правильный ответ 1 балл.

Приз -отличная оценка (может быть и не одна)

1 РАУНД

- Самая высокая точка земной поверхности

  (г. Джомолунгма 8 848 м)

- Самый жаркий материк

  (Африка)

- Самая глубокая впадина Мирового океана

  (Марианская 11 022 м)

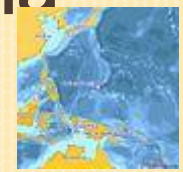

- Самая большая пустыня мира

  (Сахара)

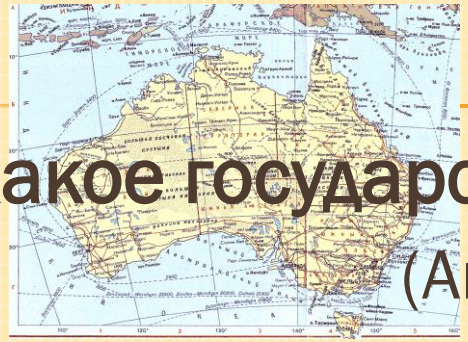

- Какое государство занимает весь материк

  (Австралийский Союз)

- Самый большой остров в мире

  (о. Гренландия)

- Кто осуществил первое кругосветное путешествие

  (Фернан Магеллан

  1521-1524 гг)

- Самое крупное озеро

  (Каспийское море-озеро 371 000 км²)



- Самое мощное течение в мире

(течение Западных ветров)

- Самое маленькое по площади государство в мире

(Ватикан- 0,44 км²)

- Самая маленькая птичка

(колибри)

- Самая большая змея в мире

(анаконда)

- Куда дуют пассаты

(в сторону экватора)

- Самый холодный материк

(Антарктида)

- В какой природной зоне мы живем

(лесостепь)

- Самая высокая точка России

(г. Эльбрус – 5 642м)

- К бассейну какого океана принадлежит Черное море

(Атлантического океана)

- **Самое глубокое озеро в мире**

(озеро Байкал – 1 620 м)

- **Какое млекопитающее рождает самого маленького детеныша**

(кенгуру - 80 гр.)

- **Какие горы называют «медными»**

(г.Анды, «анта» на языке инков – «медь»)

Самая длинная река

(река Нил – 6 671 км)

2 РАУНД

Перед Вами географические объекты. Один из них лишний. Какой именно?

- Мадагаскар, Ява, Новая Гвинея, Сомали
- Альпы, Драконовы, Анды, Сахара
- Саргассово, Нил, Нигер, Дунай

(п-ов Сомали,

пустыня Сахара,

Саргасс ре)

3 РАУНД

Перед Вами названия горных систем. Все они стоят в порядке уменьшения высоты. В порядке допущена ошибка. Необходимо поменять названия местами.

- **Анды, Гималаи, Кордильеры, Атлас**

(Гималаи- 8 848м *(Евразия)*,

Анды – 6 960м *(Южная Америка)*,

Кордильеры -6 194м *(Северная Америка)*,

Атлас- 4 165м *(Африка)*

4 РАУНД

- Перед Вами названия проливов

1. Магелланов
2. Берингов
3. Баб-эль-Мандебский
4. Босфор
5. Ла-Манш

А) Какие проливы соединяют два океана?

А) 1,2 (Атлантический и Тихий, Северный Ледовитый и Тихий)

Б)Какой пролив отделяет два полуострова?

Б) 3 (Аравийский и Сомали)

В) Какой пролив разъединяет два материка?

В) 2 (Евразию и Северную Америку)

Г) Какой пролив разъединяет две европейские страны?

Г) 5 (Великобританию и Францию)

,

5 РАУНД

Перед Вами название морей:

1. Белое море
2. Желтое море
3. Черное море
4. Красное море

Необходимо расположить их согласно географическому положению с севера на юг

(1, 3, 2, 4).

6 РАУНД

Из букв, которые входят в состав слова

«Гренландия»,



Нужно составить как можно больше слов, обозначающих названия географических объектов.

А ПОКА ЖЮРИ РЕШАЕТ…

В каждом из приведенных слов нужно поставить буквы так, чтобы получилось название города или реки:

ДНО

РУКА

ИГРА

МУАР

ВЕКИ

Поздравления победителям!